Lernkontrolle: Zeit		Name:
Klassenschnitt:	Note:	Unterschrift

Ergänze die fehlenden Angaben: Zeiger, Uhrzeit vormittags / nachmittags



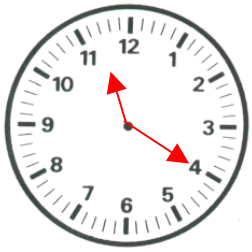



vor Mittag	0	7	5	5	0	5	3	6	1	1	2	0	0	0	0	4
nach Mittag	1	9	5	5	1	7	3	6	2	3	2	0	1	2	0	4

Verwandle:

in h (Stunden) und min (Minuten)

420 min	=	7h
315min	=	5h 15min

660min	=	11h
120min	=	2h

in min (Minuten) und s (Sekunden)

69 s	=	1min 9s
500 s	=	8min 20s

432 s	=	7min 12s
100 s	=	1min 40s

Und umgekehrt:

3h 39min	=	219min
1h 50min	=	110min

7h 31min	=	451min
2h 5min	=	125min

5min 12s	=	312s
3min 20s	=	200s

10min 9s	=	609s
1min 40s	=	100s

Berechne die fehlenden Angaben in diesem Fahrplan

Abfahrt	Fahrzeit	Ankunft
10.40	26 min	11.06
11.53	27 min	12.20
14.02	38 min	14.40
14.11	42 min	14.53
15.30	57 min	16.27
08.12	14 min	08.26
09.27	19 min	09.46

Abfahrt	Fahrzeit	Ankunft
22.03	57min	23.00
23.20	40min	24.00
00.00	33min	00.33
03.37	43 min	04.20
05.58	14 min	06.12
19.57	8 min	20.05
21.15	55min	22.10

Rechne zusammen:

4h 12min	+	3h 53min	=	*8h 05min*
6h 30min	+	31 min	=	*7h 01min*
1h 59min	+	2h 41min	=	*4h 40min*

9min 3s	+	58s	=	*10min 1s*
1min 49s	+	8min 51s	=	*10min 40s*
4min 1s	+	2min 18s	=	*6min 19s*

Jedes folgende Zifferblatt soll 2 Stunden 15 Minuten später anzeigen als das vorangehende.
Zeichne die Zeiger ein.

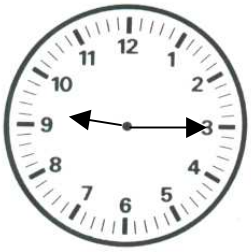
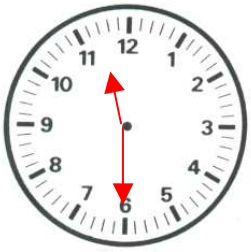
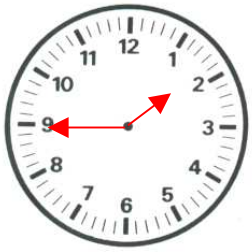
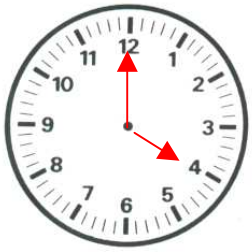

Und noch ein paar Sätzli-Aufgaben:

Von 6.35 bis 7.20 Uhr, von 10.15 bis 12.05 Uhr und von 18.10 bis 18.55 Uhr arbeitet die Mutter in der Küche.

R: *45min + 1h 50min + 45min = 3h 20min*

AS: *Die Mutter arbeitet 3 Stunden 20 Minuten (3h 20min) in der Küche.*

Heute arbeitet Felix von 8.55 bis 12.15 Uhr und von 13.20 bis 16.25 Uhr.

R: *3h 20min + 3h 5min = 6h 25min*

AS: *Heute arbeitet Felix 6 Stunden 25 Minuten (6h 25 min).*

Beantworte die Fragen:

Wieviele Stunden hat ein Tag?	*24 Stunden*
Wieviele Tage hat das Jahr 2003 gehabt?	*365 Tage*
Wieviele Minuten hat 1 Stunde?	*60 Minuten*
Wieviele Tage hat der Mai?	*31 Tage*
Wieviele Tage hat dieses Jahr (Schaltjahr) der Februar gehabt?	*29 Tage*

Lernkontrolle: Zeit		Name:
Klassenschnitt:	Note:	Unterschrift

Ergänze die fehlenden Angaben: Zeiger, Uhrzeit vormittags / nachmittags

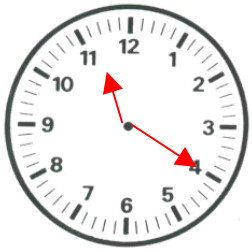





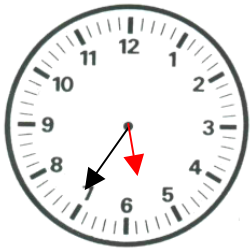

vor Mittag	1	1	*2*	*0*	*0*	*0*	*0*	*4*	*0*	*7*	*5*	*5*	*0*	*5*	*3*	*6*
nach Mittag	*2*	*3*	2	0	*1*	*2*	*0*	*4*	*1*	*9*	*5*	*5*	1	7	*3*	*6*

Verwandle:

in h (Stunden) und min (Minuten)

120 min	=	*2h*
315min	=	*5h 15min*

660min	=	*11h*
420min	=	*7h*

in min (Minuten) und s (Sekunden)

69 s	=	*1min 9s*
100 s	=	*1min 40s*

432 s	=	*7min 12s*
500 s	=	*8min 20s*

Und umgekehrt:

7h 31min	=	*451min*
1h 50min	=	*110min*

3h 39min	=	*219min*
2h 5min	=	*125min*

3min 20s	=	*200s*
5min 12s	=	*312s*

10min 9s	=	*609s*
1min 40s	=	*100s*

Berechne die fehlenden Angaben in diesem Fahrplan

Abfahrt	**Fahrzeit**	**Ankunft**
08.12	14 min	*08.26*
09.27	19 min	*09.46*
10.40	26 min	*11.06*
11.53	27 min	*12.20*
14.02	38 min	14.40
14.11	42 min	14.53
15.30	57 min	16.27

Abfahrt	**Fahrzeit**	**Ankunft**
19.57	8 min	20.05
21.15	*55min*	22.10
22.03	*57min*	23.00
23.20	*40min*	24.00
00.00	*33min*	00.33
03.37	43 min	04.20
05.58	14 min	06.12

Rechne zusammen:

6h 30min	+	31 min	=	*7h 1min*
1h 59min	+	2h 41min	=	*4h 40min*
4h 12min	+	3h 53min	=	*8h 05min*

1min 49s	+	8min 51s	=	*10min 40s*
4min 1s	+	2min 18s	=	*6min 19s*
9min 3s	+	58s	=	*10min 1s*

Jedes folgende Zifferblatt soll 2 Stunden 15 Minuten später anzeigen als das vorangehende.
Zeichne die Zeiger ein.



Und noch ein paar Sätzli-Aufgaben:

Von 6.35 bis 7.20 Uhr, von 10.15 bis 12.05 Uhr und von 18.10 bis 18.55 Uhr arbeitet die Mutter in der Küche.

R: *45min + 1h 50min + 45min = 3h 20min*

AS: *Die Mutter arbeitet 3 Stunden 20 Minuten (3h 20min) in der Küche.*

Heute arbeitet Felix von 8.55 bis 12.15 Uhr und von 13.20 bis 16.25 Uhr.

R: *3h 20min + 3h 5min = 6h 25min*

AS: *Heute arbeitet Felix 6 Stunden 25 Minuten (6h 25 min).*

Beantworte die Fragen:

Wieviele Tage hat das Jahr 2003 gehabt?	*365 Tage*
Wieviele Stunden hat ein Tag?	*24 Stunden*
Wieviele Tage hat der Mai?	*31 Tage*
Wieviele Minuten hat 1 Stunde?	*60 Minuten*
Wieviele Tage hat dieses Jahr (Schaltjahr) der Februar gehabt?	*29 Tage*